2021년도 제 1 회 초등학교 졸업학력 검정고시

제 ③ 교시 실 과

1. 다음 중 간식으로 가장 적절한 것은?

① 간장 ② 과일
③ 된장 ④ 후추

2. 다음 설명에 해당하는 것은?

○ 실험이나 요리를 할 때 착용한다.
○ 미세 먼지나 황사가 심할 때 착용한다.

① 귀마개 ② 마스크
③ 반창고 ④ 야광조끼

3. 다음 중 건강한 몸을 유지하기 위하여 실천해야 하는 것으로 가장 적절한 것은?

① 꾸준히 운동하기
② 잠은 되도록 적게 자기
③ 컴퓨터 게임 많이 하기
④ 맵고 짠 음식 많이 먹기

4. 다음 용돈 기입장의 ㉠에 해당하는 항목은?

날짜	내용	수입	지출	㉠
4월 5일	용돈	5,000원		5,000원
4월 7일	친구 선물 구입		3,500원	1,500원

① 이름 ② 취미
③ 학용품 ④ 남은 돈

5. 다음 행동으로 예방할 수 있는 것은?

○ 계단에서 뛰어 내려가지 않는다.
○ 젖은 손으로 전기 제품을 만지지 않는다.

① 교통사고 ② 안전사고
③ 의견 충돌 ④ 학교 폭력

6. 다음 중 옷을 관리해야 하는 이유로 적절하지 않은 것은?

① 옷을 오래 입을 수 있다.
② 옷을 깨끗하게 입을 수 있다.
③ 옷을 재활용하여 자원을 아낄 수 있다.
④ 연예인과 똑같은 옷을 따라 입을 수 있다.

7. 다음 ㉠에 들어갈 말로 가장 적절한 것은?

동식물은 질병을 치료하는 의약품 개발에 이용될 수 있는 ㉠ 자원이다.

① 의료 ② 인적
③ 주거 ④ 지적

8. 다음 설명에 해당하는 수송 수단은?

물 위를 오가며 사람이나 물건 등을 이동시켜 준다.

① 배 ② 기차
③ 자전거 ④ 오토바이

9. 다음과 같은 용품이 필요한 애완동물은?

○ 물 ○ 수초
○ 어항 ○ 자갈

① 개 ② 고양이
③ 금붕어 ④ 장수풍뎅이

10. 다음 설명에 해당하는 직업은?



○ 동물의 전염병을 예방하는 일을 한다.
○ 동물이 병이 나면 진찰 및 치료를 해 준다.

① 수의사
② 요리사
③ 아나운서
④ 피아니스트

11. 다음 중 건강한 가정생활을 위한 노력으로 옳지 <u>않은</u> 것은?

① 서로 칭찬과 격려를 한다.
② 가정일은 가족 구성원이 나누어 한다.
③ 갈등이 생기지 않도록 서로 배려한다.
④ 힘든 일이 생기면 서로에게 화를 낸다.

12. 다음 설명에 해당하는 발명 기법으로 가장 적절한 것은?



거꾸로 세우는 용기는 내용물이 아래쪽으로 내려와서 사용하기 편리하다.

① 곱하기 ② 더하기
③ 반대로 하기 ④ 자연물 본뜨기

13. 다음은 손바느질로 주머니를 만드는 과정이다. 순서대로 바르게 배열한 것은?

ㄱ. 잘라 놓은 옷감을 바느질로 연결한다.
ㄴ. 주머니의 모양, 색, 크기 등을 구상한다.
ㄷ. 종이 본을 옷감에 옮겨 그린 후 옷감을 자른다.

① ㄱ-ㄴ-ㄷ ② ㄴ-ㄱ-ㄷ
③ ㄴ-ㄷ-ㄱ ④ ㄷ-ㄱ-ㄴ

14. 다음 설명에 해당하는 것은?

○ 밥을 이용한 한 그릇 음식이다.
○ 잘게 썬 재료를 밥과 함께 볶아서 만든다.

① 국수 ② 톱밥
③ 된장국 ④ 볶음밥

15. 다음 중 소프트웨어를 적용한 사례가 <u>아닌</u> 것은?

① 손으로 빨래를 한다.
② 스마트폰으로 정보를 검색한다.
③ 컴퓨터로 집에서 수업을 듣는다.
④ 내비게이션으로 빠른 길을 찾는다.

16. 다음 설명에 해당하는 것은?



음식의 재료를 칼로 썰거나 다질 때 밑에 받치는 도구이다.

① 도마 ② 주걱
③ 계량컵 ④ 숟가락

17. 다음 중 의생활에 해당하는 것은?

① 요리하기
② 청소하기
③ 상 차리기
④ 다림질하기

18. 그림의 (가)에 들어갈 말로 가장 적절한 것은?

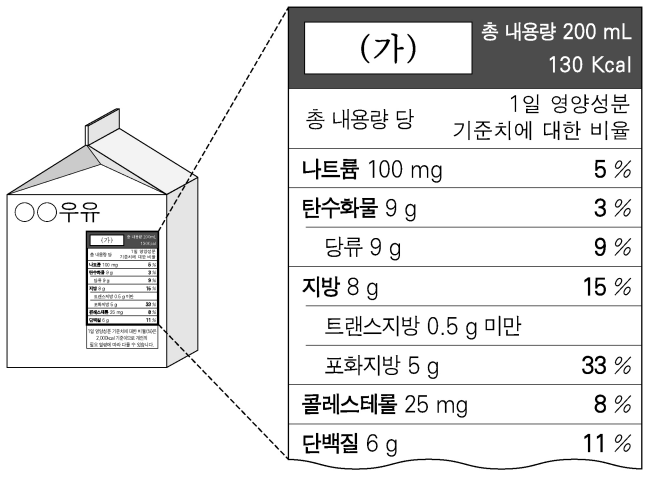

① 보관 방법 ② 영양 정보
③ 유통 기한 ④ 제조 일자

19. 다음 설명에 해당하는 것은?

이름, 전화번호, 주민 등록 번호 등과 같이 특정한 개인을 알아볼 수 있는 정보를 말한다.

① 가격표 ② 개인 정보
③ 제품 설명 ④ 사이버 중독

20. 다음 설명에 해당하는 것은?

달이나 화성 등에서 환경을 조사하는 데 사용한다.

① 가정용 로봇
② 의료용 로봇
③ 우주 탐사 로봇
④ 화재 진압 로봇